Adı :..... Soyadı:..... ...../...../.....

.....

30 içinde 3'er ileri geri ritmik sayma.

Tablomuzda 3'ten başlayıp iki atlayarak üçer ileri saydığımız sayıların kutularını boyayalım.

1	2	3	4	5	6	7	8	9	10
11	12	13	14	15	16	17	18	19	20
21	22	23	24	25	26	27	28	29	30

Boyadığımız kutulardaki sayıları alttaki tablolara sırası ile yazalım.

.....	.....	.....	.....	.....	.....	.....	.....	.....	.....

.....	.....	.....	.....	.....	.....	.....	.....	.....	.....

.....	.....	.....	.....	.....	.....	.....	.....	.....	.....

.....	.....	.....	.....	.....	.....	.....	.....	.....	.....

.....	.....	.....	.....	.....	.....	.....	.....	.....	.....

Tablomuzda 30'dan başlayıp iki atlayarak üçer geri saydığımız sayıların kutularını boyayalım.

30	29	28	27	26	25	24	23	22	21
20	19	18	17	16	15	14	13	12	11
10	9	8	7	6	5	4	3	2	1

Boyadığımız kutulardaki sayıları alttaki tablolara sırası ile yazalım.

.....	.....	.....	.....	.....	.....	.....	.....	.....	.....

.....	.....	.....	.....	.....	.....	.....	.....	.....	.....

.....	.....	.....	.....	.....	.....	.....	.....	.....	.....

.....	.....	.....	.....	.....	.....	.....	.....	.....	.....

.....	.....	.....	.....	.....	.....	.....	.....	.....	.....
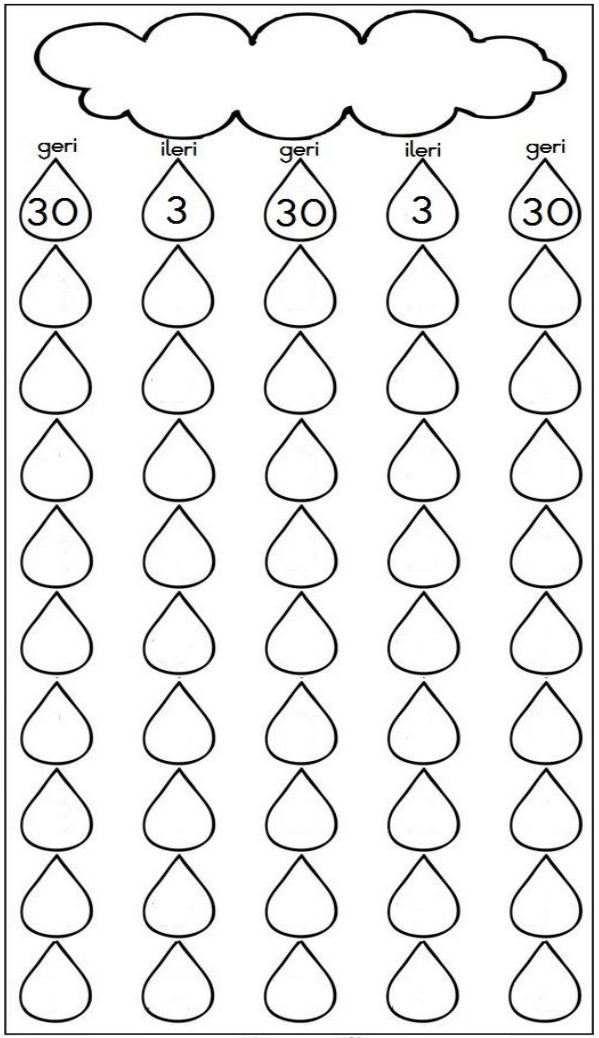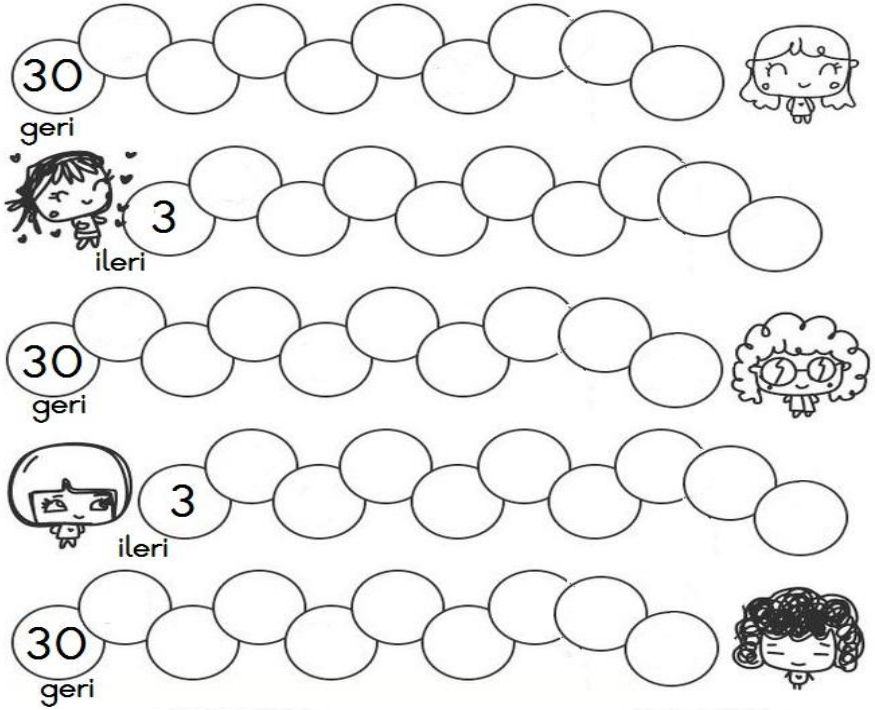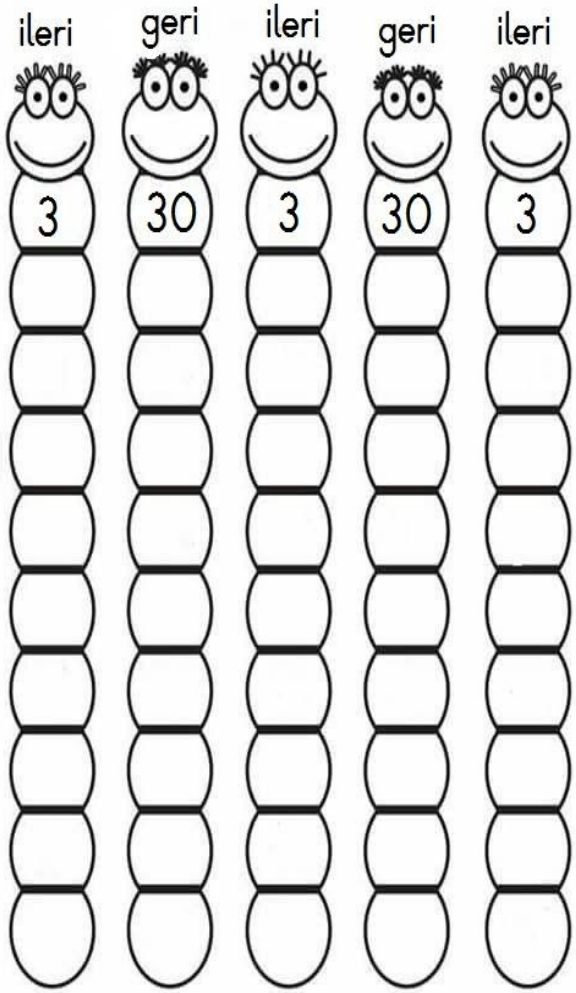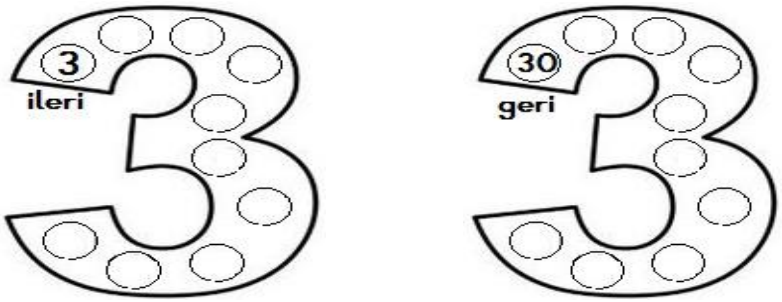
Üçer ileri, geri ritmik saymaya göre boşlukları tamamlayalım.